Junta de Andalucía

MIÉRCOLES 20 DE MAYO DE 2020 - 5º EDUCACIÓN PRIMARIA

1ª HORA	2ª HORA	3ª HORA	4ª HORA	5ª HORA
LENGUA	INGLÉS	MATES	SOCIALES	E. FÍSICA

LENGUA CASTELLANA

Primero:

Buenos días, chicos y chicas.
Hoy vamos a analizar adjetivos.

1.- En cada recuadro tienes que escribir el género (masculino o femenino), el número (singular o plural) y el grado (Comparativo de igualdad o superioridad, superlativo...).

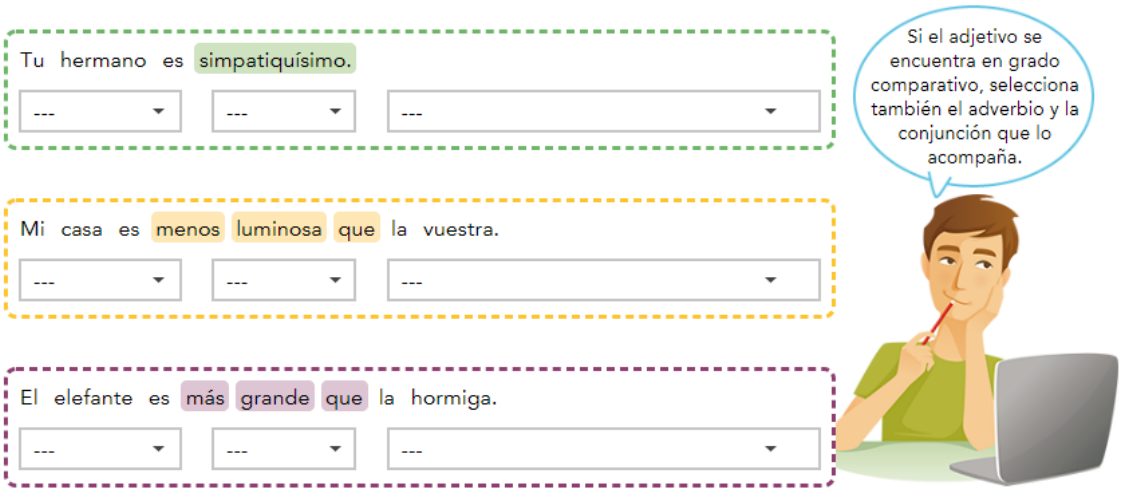

INGLÉS

Unit 6 "At the summer camp"

First of all, we have to revise the vocabulary. "Writing"

1) Complete Activity 4 page 60

2) Complete this crossword:

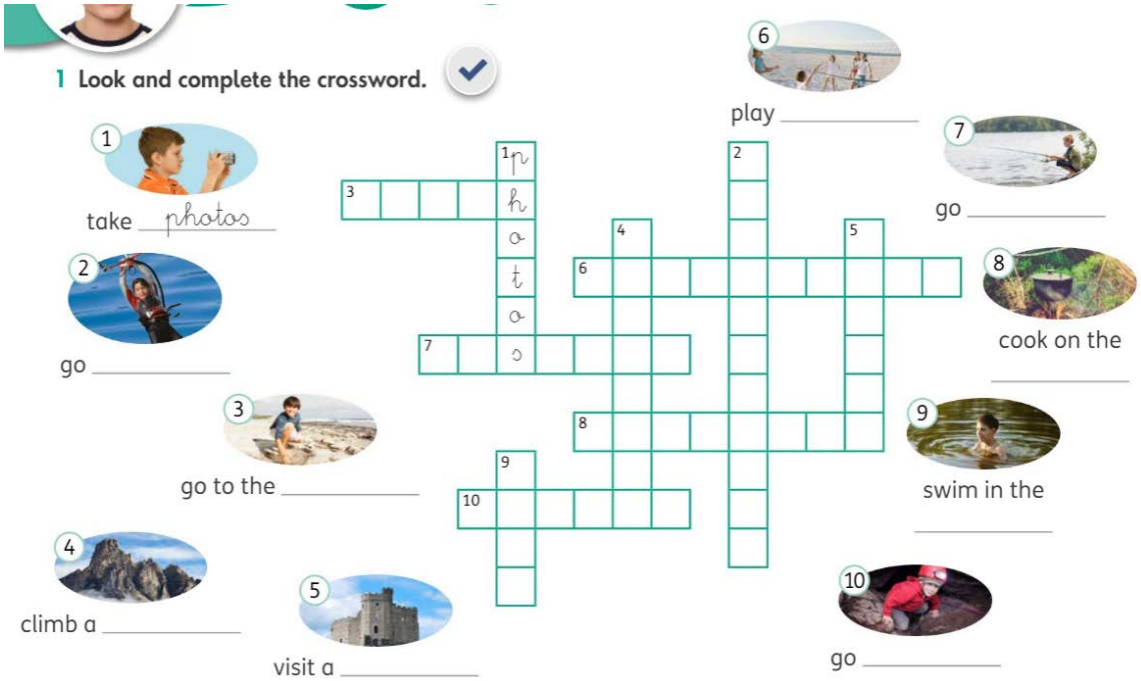

3) Listen and repeat in high voice.

https://drive.google.com/open?id=1Bxe_gwvd886Ur1_Wx4rmR_-Sd9D0xKDP

4) Culture

https://drive.google.com/open?id=1nu9MOOb4x3fnSlBNY-57Odugbg32JG38

MATEMÁTICAS

Primero:

Lee y contesta.

Marcos es patrón de yate y se dedica a organizar viajes y llevar a turistas por las distintas islas cercanas.

Tiene muchos clientes y debe organizarse bien para poder atender a todos. La puntualidad es muy importante.

- Halla cuánto tiempo duró cada viaje.

Isla Pequeña

SALIÓ

LLEGÓ

Isla Cartuja

SALIÓ

LLEGÓ

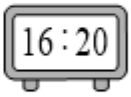

- Completa los relojes para saber a qué hora llegará el yate.

Isla Rocosa

2 horas y 10 minutos después

Isla Verde

3 horas y 25 minutos después

- Aproxima cada hora de llegada y representa la aproximación en el reloj.

Las cuatro y ocho minutos de la tarde

Las nueve y dos minutos de la noche

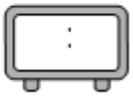

Marcos realiza muchas rutas diferentes entre las islas.

La duración de cada viaje depende de la distancia que tenga que recorrer y otros factores como el tiempo.

- Calcula, en la unidad indicada, el tiempo que tardó en cada viaje.

En minutos — Isla Larga: 6 h — Isla Roja: 3 h y 12 min

En horas, minutos y segundos — Isla Sol: 24.000 s — Isla Luna: 32.000 s

- De Isla Parda a Isla Antigua tardó 3 h y 5 min mientras que de Isla Antigua a Isla Nueva tardó 29 minutos menos. ¿Cuánto tardó en el viaje de Isla Antigua a Isla Nueva? ¿Cuánto tardó en total?

CIENCIAS SOCIALES

1º Corrige las frases (no mandar a Pasen)

- En el arte románico se construyeron grandes iglesias. F.
  En el arte románico se construyeron pequeñas iglesias.
- En el arte románico nos encontramos arcos de medio punto y bóvedas de cañón. V
- Las catedrales góticas son de pequeñas dimensiones. F
  Las catedrales góticas son de grandes dimensiones.
- Las catedrales góticas presentan vidrieras de colores y un rosetón en la fachada. V
- En el arte gótico encontramos bóvedas de cañón y arcos apuntados. F
  En el arte gótico nos encontramos con bóvedas de crucería y arcos apuntados.

2º Prepárate para una prueba de evaluación on-line para el 27 de mayo como la anterior. Recuerda que sólo es la mitad del tema.

Aspectos que hay que repasar:

- Revisa las actividades hechas en las últimas semanas.
- Repasa contenidos de las páginas 94,95, 100 y 101 de tu libro de sociales.
- La Batalla de Covadonga.
- Los reinos cristianos (Corona de Castilla...).
- El último reino musulmán en 1492 (reino de Granada).
- La sociedad feudal (privilegiados y no privilegiados, funciones de cada uno).
- El estilo románico (pequeñas iglesias y monasterios, arco de medio punto y bóveda de cañón).
- El estilo gótico (catedrales de grandes dimensiones, bóveda de crucería y arcos apuntados).
- Si tienes dudas pregúntame por Pasen.

3º Escucha este vídeo resumen del tema:

E. FÍSICA

Recuerda que estas dos semanas tienes un reto, anímate y participa.

Soluciones:

Matemáticas:

Soluciones:

Lengua

Tu hermano es simpatiquísimo.

masculino | singular | grado superlativo

Mi casa es menos luminosa que la vuestra.

femenino | singular | grado comparativo de inferioridad

El elefante es más grande que la hormiga.

masculino | singular | grado comparativo de superioridad

Matemáticas:

- Isla Pequeña: 1 hora y 10 minutos.
  Isla Cartuja: 2 horas y media.
- Isla Rocosa: Las 7 y cinco.

Isla Verde: Las 6 y cuarto.

- Las 4 y diez.

Las nueve.

- En minutos: 360 min; 192 min.
  En horas, minutos y segundos:
  6 h y 40 min; 8 h, 53 min y 20 s
- 3 h y 5 min − 29 min = 2 h y 36 min
  Tardó 2 h y 36 min de Isla Antigua
  a Isla Nueva.
  3 h y 5 min + 2 h y 36 min = 5 h y 41 min
  Tardó 5 h y 41 min en total.

Junta de Andalucía

¡¡¡¡¡¡ IMPORTANTE !!!!!!

NOTA: Las tareas, una vez terminadas, la puedes enviar vía foto al profesor/a correspondiente por **Ipasen.** Si tienes problemas ponte en contacto con el tutor/a para que te proporcione el EMAIL que hemos habilitado para ello. Si lo haces a través de email no olvides poner los siguientes datos en el **asunto**:

Curso:

Número de clase e Iniciales del alumno/a:

Asignatura:

Día de la tarea:

Ejemplo: Tercero - Nº 20 - R.A.N. – Lengua Castellana – 14 de abril.

A través de **iPasen** no olvides poner el nombre del alumno, el curso y el día de la tarea en el asunto.