Educación y Deporte

CEIP Juan Carrillo

PROGRAMACIÓN SEMANA 2ª

GRUPO:5º B

HOLA A TODOS/TODAS:

Soy Mª del Pilar Rojas Benito tu tutora de 5ºB y aquí os envío las tareas a realizar durante la segunda semana.

Estas tareas las debéis hacer en las libretas correspondientes a cada asignatura, indicando la fecha de realización, con buena presentación y cuidando la ortografía.
Debéis copiar el enunciado de cada actividad y después realizarla.
Al final de la semana o principio de la siguiente, os enviaré las soluciones de estas tareas, para que os autoevaluéis.
Pero las tareaslas debéis hacer vosotros/as diariamente. Os recomiendo que seáis autónomos/as en la realización de las mismas. Establezcáis un horario de trabajo, otro de descanso y otro de diversión para juegos, etc.

Recordad ser constantes y aprovechar adecuadamente el tiempo. Además de estas tareas(que son mínimas), os recomiendo que sigáis realizando lecturas de cualquier libro de la biblioteca que os llevasteis, realizad dibujos en la libreta ilustrativos sobre la temática de las tareas que estáis realizando, ilustrad la libreta. Cuando volvamos evaluaremos el trabajo realizado y ya las revisaremos.

Cualquier duda podéis plantearla por medio de iPASEN.

No olvidéis seguid colaborando con vuestros padres/madres, realizando otras tareas, ayudando en casa. Pronto volveremos a la situación normal.

Muchos besos.

Tareas a realizar en las distintas materias durante la semana de marzo de 2020

ASIGNATURAS	LUNES	MARTES	MIÉRCOLES	JUEVES	VIERNES
Lengua	Ver el vídeo explicativo siguiente: https://www.youtube.com/watch?v=lUZ5yMJuniI -A continuación leer página 132 y realizar las del 1 al 3 (en la 3 escribir cinco verbos de acciones que os gusten realizar).	Página 133: actividades 5, 6 7, 8 y 9	Página 133: actividades 10 y 12		.- Realizar Ficha Imagen 1 y 2 Lengua
Matemáticas	Ver el vídeo explicativo siguiente: https://www.youtube.com/watch?v=A5yXjDNkBYI -A continuación leer la página 144 y realizar ejercicios 1 y 3	Ver el vídeo siguiente: https://www.youtube.com/watch?v=TB6pjaDB2OQ -A continuación leer página 145 y hacer ejercicio: 1	Ver vídeo siguiente hasta el minuto 2,53: https://www.youtube.com/watch?v=GOLkFPLkVpM -A continuación leer página 145 y hacer ejercicios : 2 y 3	Ver vídeo siguiente: https://www.youtube.com/watch?v=MzzKzYYVJhI -A continuación leer página 146 y hacer ejercicio: 2	.- Realizar Imagen Ficha Image
Ciencias	Lo indicado por el profesor a la Delegada de Clase				
Inglés	Acceder al BLOG: https://haveafunnyenglishclass.blogspot.com				
Ed. Física	Acceder al BLOG: https://educacionfisicaentiemposdecoronavirus.blogspot.com				
Música/Plástica	Acceder al BLOG: https://aprendemusicdesdecasa.blogspot.com/?m=1				
Valores /Religión			Realizar un diario de lo que haces y sientes.		Realizar un diario de lo que h y sientes.
Ed. Ciudadanía					Ver el vídeo siguiente: https://www.youtube.com/wh?v=nYTrIcn4rjg y después realizar una b redacción sobre: " ¿Por qué to somos importantes y debe respetarnos?".
Francés	Repasar el vocabulario de los animales de la Unidad. Hacer un dibujo de uno de los paisajes de la Unidad, con un animal que pueda vivir en ese paisaje. Poner en el dibujo la fecha, el nomb del paisaje y del animal en francés. Escuchar y ver en Youtube: Claudio Capéo: Ça va, ça va (si es posible).				

LENGUA: IMAGEN 1

Principales prefijos

PLAN DE MEJORA

Nombre _____ Fecha _____

RECUERDA

Los **prefijos** son morfemas derivativos que se añaden al principio de algunas palabras para formar otras nuevas.

Los prefijos aportan distintos significados a las palabras. A veces un mismo prefijo tiene varios significados.

1 Identifica y escribe el prefijo de las siguientes palabras:

_____	_____	_____	_____
• desánimo	• injusticia	• preacuerdo	• reenvío
• deshacer	• incumplir	• prevenir	• reorganizar
• desigual	• insensato	• prehistórico	• reutilizable

2 Forma palabras nuevas añadiendo prefijos.

in- ante- des- bi- extra- re-

- arropar ► _____
- capaz ► _____
- organizar ► _____
- proyecto ► _____
- motor ► _____
- oficial ► _____
- formal ► _____
- terrestre ► _____

3 Completa cada oración con la palabra adecuada. Después, subraya sus prefijos.

subgrupos | interurbano | preselección | interminable

- La película me pareció _____ porque duró más de dos horas.
- Para la obra de teatro, hicieron una _____ de actores.
- Hicimos dos _____ para realizar el trabajo.
- Rubén y Carla cogieron el autobús _____.

MATERIAL FOTOCOPIABLE © 2019 EDICIONES GRAZALEMA, S. L.

LENGUA IMAGEN 2:

El verbo (I)

PLAN DE MEJORA

Nombre _____ Fecha _____

RECUERDA

Los **verbos** son palabras que expresan acciones. Los verbos tienen muchas formas distintas. El conjunto de todas las formas de un verbo es su **conjugación**. Las formas verbales pueden ser simples o compuestas. La forma que usamos para nombrar al verbo es el **infinitivo**.

Todas las formas verbales constan de **raíz** y **desinencia**.

Hay tres **conjugaciones**: primera, segunda y tercera.

1 Subraya las formas verbales e indica si son simples (S) o compuestas (C).

- Alba madrugó mucho esta mañana. ◯
- Gustavo ha escuchado en la radio las noticias de hoy. ◯
- Las niñas pasean a los perros de algunos de los vecinos. ◯
- Ella había pensado un plan para el fin de semana. ◯

2 Escribe un infinitivo para cada dibujo e indica su conjugación.







_____ _____ _____

_____ _____ _____

3 Divide las siguientes formas verbales en raíz y desinencia, e indica su conjugación.

- despertabas ► _____ + _____ ► _____
- presumiré ► _____ + _____ ► _____
- estudiará ► _____ + _____ ► _____
- romperemos ► _____ + _____ ► _____

 MATERIAL FOTOCOPIABLE © 2019 EDICIONES GRAZALEMA, S. L.

MATEMÁTICAS IMAGEN 1:

Suma y resta de números decimales

PLAN DE MEJORA

Nombre _____ Fecha _____

1 Coloca los números y suma.

TEN CUIDADO
Coloca los números de forma que coincidan en columna las cifras del mismo orden.

- 67,9 + 8,58
- 345,89 + 68,456
- 32,76 + 832,9
- 73,85 + 9,896
- 473,9 + 97,654
- 8,74 + 628,421

2 Coloca los números y resta.

RECUERDA
Coloca los números y, si es necesario, añade ceros en el minuendo.

- 34,9 – 28,45
- 83,6 – 9,872
- 549,4 – 67,93
- 120,05 – 95,237
- 89,02 – 8,468
- 89,5 – 12,653

3 Resuelve.

Alejandra compra una camiseta por 19,90 € y un jersey por 35,99 €.

- ¿Cuánto se gasta en total?
- ¿Cuánto cuesta el jersey más que la camiseta?

REPASA ESTA INFORMACIÓN. Después, corrige tus actividades.

Para sumar o restar números decimales, se colocan de forma que coincidan en la misma columna las cifras del mismo orden y, si es necesario, se añaden ceros en el minuendo. Después, se suman o se restan como si fueran números naturales y se coloca una coma en el resultado debajo de la columna de las comas.